Séries graphiques : 10 questions avec corrigé

Exercices gratuits et corrigés en ligne sur prepaquiz.fr/tests-psychotechniques/series-graphiques. Corrigé en dernière page. Site indépendant, non affilié aux recruteurs.

Exercice 1 Niveau 1

Quelle figure (A, B, C ou D) complète la série ?

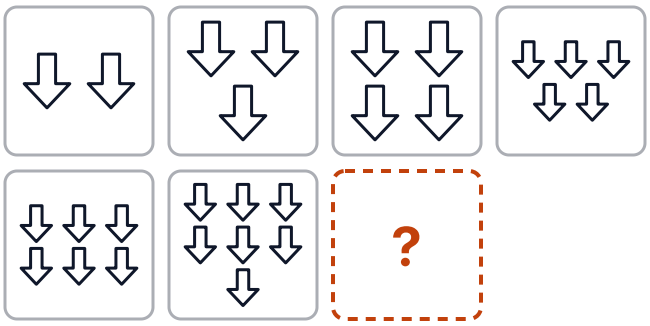

A 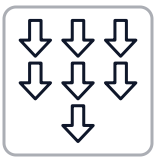

B 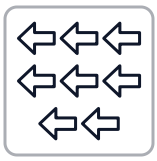

C 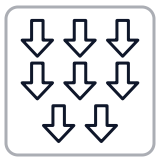

D 

Réf. serie-formes · niveau 1 · graine 9001

Exercice 2 Niveau 1

Quelle figure (A, B, C ou D) complète la série ?



A 

B 

C 

D 

Réf. serie-formes · niveau 1 · graine 9002

Exercice 3 — Niveau 1

Quelle figure (A, B, C ou D) complète la série ?



A 

B 

C 

D 

Réf. serie-formes · niveau 1 · graine 9003

Exercice 4 — Niveau 2

Quelle figure (A, B, C ou D) complète la série ?

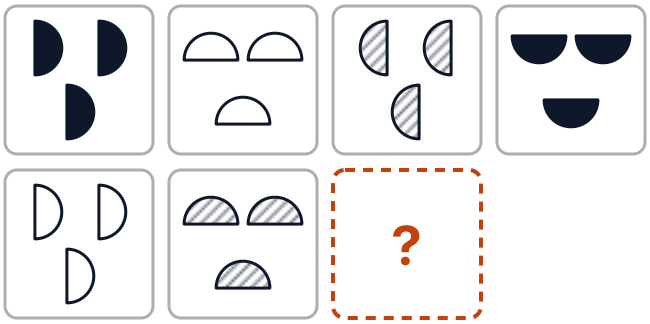

A 

B 

C 

D 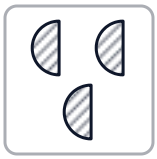

Réf. serie-formes · niveau 2 · graine 9004

Exercice 5 — Niveau 2

Quelle figure (A, B, C ou D) complète la série ?



A 

B 

C 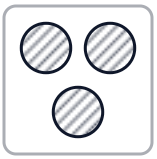

D 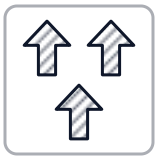

Réf. serie-formes · niveau 2 · graine 9005

Exercice 6 — Niveau 2

Quelle figure (A, B, C ou D) complète la série ?



A 

B 

C 

D 

Réf. serie-formes · niveau 2 · graine 9006

Exercice 7 — Niveau 2

Quelle figure (A, B, C ou D) complète la série ?



A 

B 

C 

D 

Réf. serie-formes · niveau 2 · graine 9007

Exercice 8 — Niveau 3

Quelle figure (A, B, C ou D) complète la série ?

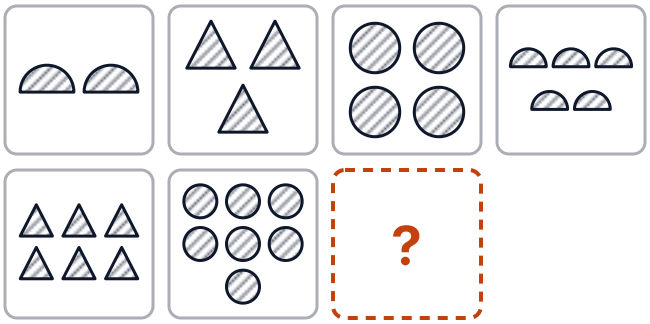

A 

B 

C 

D 

Réf. serie-formes · niveau 3 · graine 9008

Exercice 9 Niveau 3

Quelle figure (A, B, C ou D) complète la série ?



A 

B 

C 

D 

Réf. serie-formes · niveau 3 · graine 9009

Exercice 10 Niveau 3

Quelle figure (A, B, C ou D) complète la série ?



A 

B 

C 

D 

Réf. serie-formes · niveau 3 · graine 9010

Corrigé

1. **C** — D'une case à l'autre, le nombre de formes augmente de 1 à chaque case ; le reste ne change pas. La figure suivante montre donc 8 flèches vides pointant vers le bas : c'est la réponse C.
2. **A** — D'une case à l'autre, le nombre de formes augmente de 1 à chaque case ; le reste ne change pas. La figure suivante montre donc 7 cercles pleins : c'est la réponse A.
3. **A** — D'une case à l'autre, la forme tourne d'un quart de tour dans le sens des aiguilles d'une montre à chaque case ; le reste ne change pas. La figure suivante montre donc 1 triangle rayé pointant vers la droite : c'est la réponse A.
4. **B** — D'une case à l'autre, la forme tourne d'un quart de tour dans le sens inverse des aiguilles d'une montre à chaque case, et le remplissage suit le cycle plein → vide → rayé, puis recommence ; le reste ne change pas. La figure suivante montre donc 3 demi-cercles pleins, côté plat à droite : c'est la réponse B.
5. **A** — D'une case à l'autre, la forme suit le cycle triangle → flèche, puis recommence, et le remplissage suit le cycle rayé → vide → plein, puis recommence ; le reste ne change pas. La figure suivante montre donc 3 triangles rayés pointant vers le haut : c'est la réponse A.
6. **C** — D'une case à l'autre, le remplissage suit le cycle vide → rayé → plein, puis recommence, et la forme tourne d'un quart de tour dans le sens des aiguilles d'une montre à chaque case ; le reste ne change pas. La figure suivante montre donc 2 triangles vides pointant vers le bas : c'est la réponse C.
7. **B** — D'une case à l'autre, le nombre de formes augmente de 1 à chaque case, et le remplissage suit le cycle rayé → vide → plein, puis recommence ; le reste ne change pas. La figure suivante montre donc 8 demi-cercles rayés, côté plat en haut : c'est la réponse B.
8. **B** — D'une case à l'autre, le nombre de formes augmente de 1 à chaque case, et la forme suit le cycle demi-cercle → triangle → cercle, puis recommence ; le reste ne change pas. La figure suivante montre donc 8 demi-cercles rayés, côté plat en bas : c'est la réponse B.
9. **D** — D'une case à l'autre, la forme suit le cycle demi-cercle → triangle → cercle, puis recommence, et le remplissage suit le cycle vide → plein → rayé, puis recommence ; le reste ne change pas. La figure suivante montre donc 1 demi-cercle vide, côté plat en bas : c'est la réponse D.
10. **B** — D'une case à l'autre, le remplissage suit le cycle rayé → plein → vide, puis recommence, et la forme tourne d'un demi-tour à chaque case ; le reste ne change pas. La figure suivante montre donc 3 demi-cercles rayés, côté plat en haut : c'est la réponse B.

Entraînement illimité, trois niveaux et exemples corrigés : prepaquiz.fr/tests-psychotechniques/series-graphiques